TEST D'INGRESSO TEORIA

BIENNIO ACCADEMICO – II LIVELLO

- SOLUZIONI -

INTERVALLI

Indicare il tipo di intervallo: Maggiore (M), minore (m), giusto (G), eccedente (E), diminuito (d), più che eccedente (+E), più che diminuito (+d) – ad es.: 3^ M. oppure 4^ G, opp. 5^ +E, ecc.).



6^ E 7^ d 4^ +E 5^ +d 6^ m

ACCORDI

TRIADI A 3 PARTI - Analizza e indica la specie della triade (M, m, E, d) e lo stato: ovvero la posizione fondamentale ($^{5}_{3}$) o di rivolto (1° rivolto = $^{6}_{3}$ opp. 2° rivolto = $^{6}_{4}$).
Ad es.: M $^{5}_{3}$, d $^{6}_{3}$.

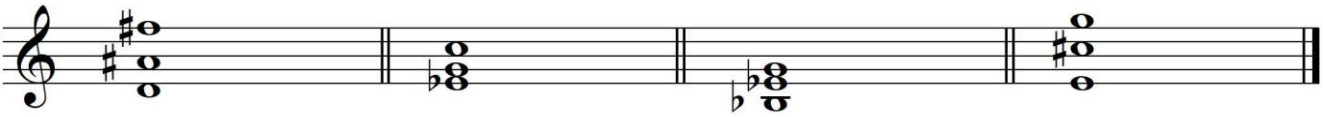

E (F) m $^{6}_{3}$ M $^{6}_{4}$ d 6

TRIADI E QUADRIADI A 4 PARTI - Analizza e indica la specie dell'accordo e lo stato: posizione fondamentale (F) o di rivolto (1°R, 2°R opp. 3°R).



7 (F) E (F) 7 (1° R) 7 (3° R) m (2° R) 7 (1° R)

(4^ specie) (3^ specie) $^{6}_{5}$ (1^ specie) $^{4}_{2}$ $^{6}_{4}$ (2^ specie) $^{6}_{5}$

Max 15 punti (uno x ogni accordo/intervallo). Si è “Idoneo” con un punteggio minimo di 9/15.